| / | 解　説 |
|---|---|
| / | NO10 |

# 角と合同NO７

中2　三角形の証明問題－③

| NAME | mistake |
|---|---|
| | |

① ＢＭ＝ＤＭ,
∠ＡＢＭ＝∠ＣＤＭ
ならば
△ＡＭＢ≡△ＣＭＤ
であることを証明せよ。

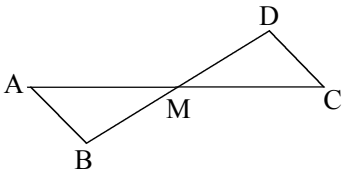


（仮定）

（結論）

（証明）

② ＡＢ＝ＡＣ, ＢＤ＝ＣＤ
ならば△ＡＢＤ＝△ＡＣＤ
であることを証明せよ。

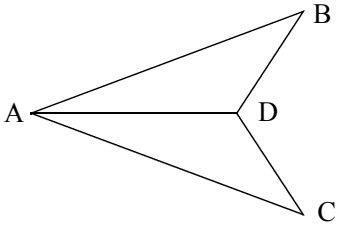


（仮定）

（結論）

（証明）

③ ＣＯ＝ＤＯ, ∠ＡＣＯ
＝∠ＢＤＯならば
△ＡＯＣ≡△ＢＯＤであ
ることを証明せよ。

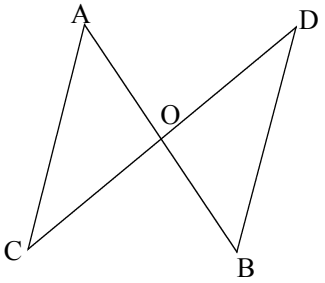


（仮定）

（結論）

（証明）

④ ＡＢ＝ＡＣ, ＡＥ＝ＡＤ
ならば△ＡＢＥ≡△ＡＣＤ
であることを証明せよ。

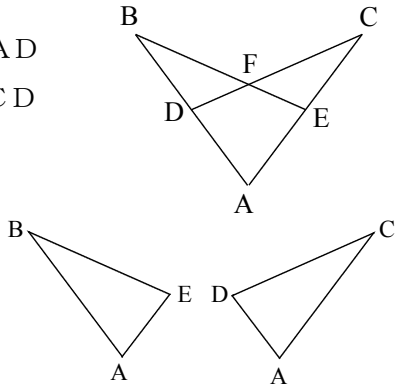


（仮定）

（結論）

（証明）